# 第 9 講　日本の諸地域（関東・東北・北海道地方）

## Step 1

1 次の問いに答えなさい。

(1) 関東平野を覆う，火山灰の赤土を何というか。

(2) 2011 年に世界自然遺産に登録された小笠原諸島は，どの都道府県に属しているか。

(3) こんにゃくいもは，何県の特産物か。

(4) 次の文章の正誤を判断し，○×で答えよ。

「関東地方には，4 つの政令指定都市〔横浜市・川崎市・相模原市（神奈川県），千葉市（千葉県)〕がある。」

(5) 東北地方のほぼ中央を南北に連なる山脈を，何というか。

(6) 稲作がさかんな仙台平野などを経て，太平洋に注ぐ川を何というか。

(7) 三陸海岸沖は，暖流の黒潮〔日本海流〕と寒流の親潮〔千島海流〕がぶつかり，プランクトンが豊富なため好漁場となっているが，このような場所を何というか。

(8) 岩手県を代表する伝統的工芸品とは何か。

(9) 中尊寺金色堂などが残り，2011 年にユネスコ世界文化遺産に指定された岩手県内の地域を何というか。

(10) 北海道の北東部に位置する山地を何というか。

(11) 他の土地から土を持ち込み，土の性質を改良する方法を何というか。

(12) 一極集中が進む，北海道の道庁所在地はどこか。

## Step　2

2　次の１・２の問いに答えなさい。

1　次の略地図を見て，後の⑴～⑶の問いに答えよ。

略地図

⑴　地図中のⓐは，我が国の領土の最北端に位置する島を示している。この島の名称を，次のア～エから一つ選び，その記号を書け。

ア　沖ノ鳥島　　イ　択捉島　　ウ　国後島　　エ　与那国島

⑵　地図中の ➡ は，夏に東北地方に吹く北東風を表しており，この風が吹くと，東北地方に冷害が発生することもある。この風は何と呼ばれているか，書け。

(3) 右の資料Ⅰは，全国を北海道，東北，関東，中部，近畿，中国・四国，九州の七つの地方に区分し，各地方の2014年における面積と人口との関係について表したものである。資料中のa〜dは，それぞれ北海道，関東，中部，中国・四国のいずれかの面積と人口とを示している。a〜dに当てはまる組み合わせとして正しいものを，次のア〜エから一つ選び，その記号を書け。

資料Ⅰ

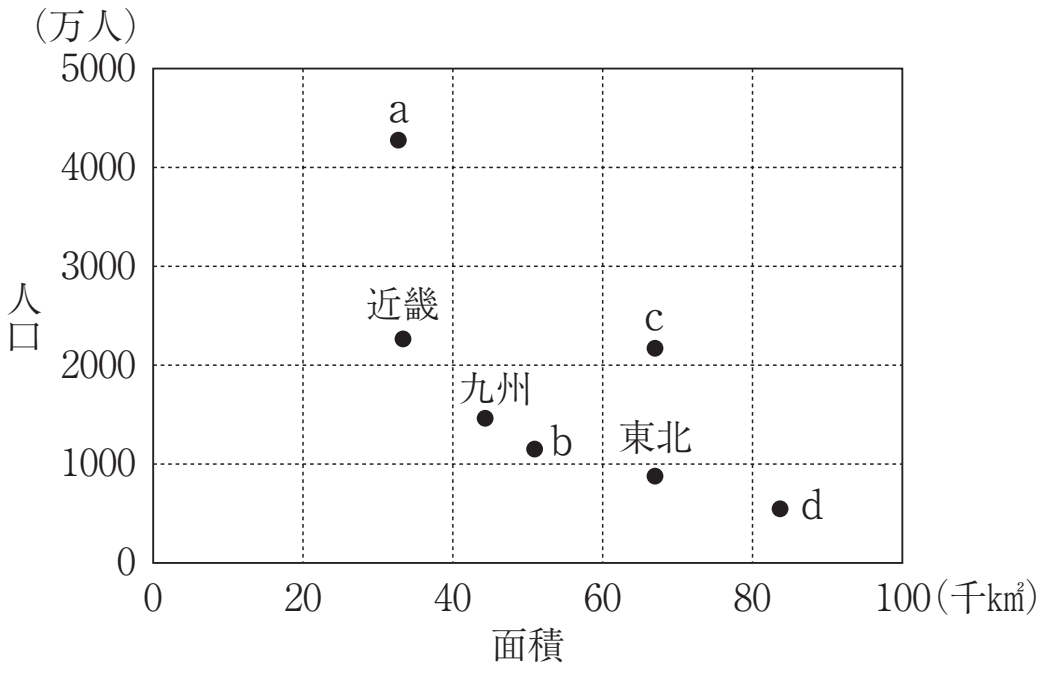

（日本国勢図会 2015／16年版による）

| | | | | |
|---|---|---|---|---|
| ア | a—北海道 | b—中国・四国 | c—中部 | d—関東 |
| イ | a—関東 | b—中部 | c—中国・四国 | d—北海道 |
| ウ | a—中部 | b—関東 | c—北海道 | d—中国・四国 |
| エ | a—関東 | b—中国・四国 | c—中部 | d—北海道 |

2　次の資料Ⅱ中の•印は，2014年における我が国の最大出力200万kW以上の火力発電所を表したものである。これらの火力発電所が内陸部ではなく，臨海部につくられている理由を，「輸送」の語を使って，簡潔に書け。

資料Ⅱ

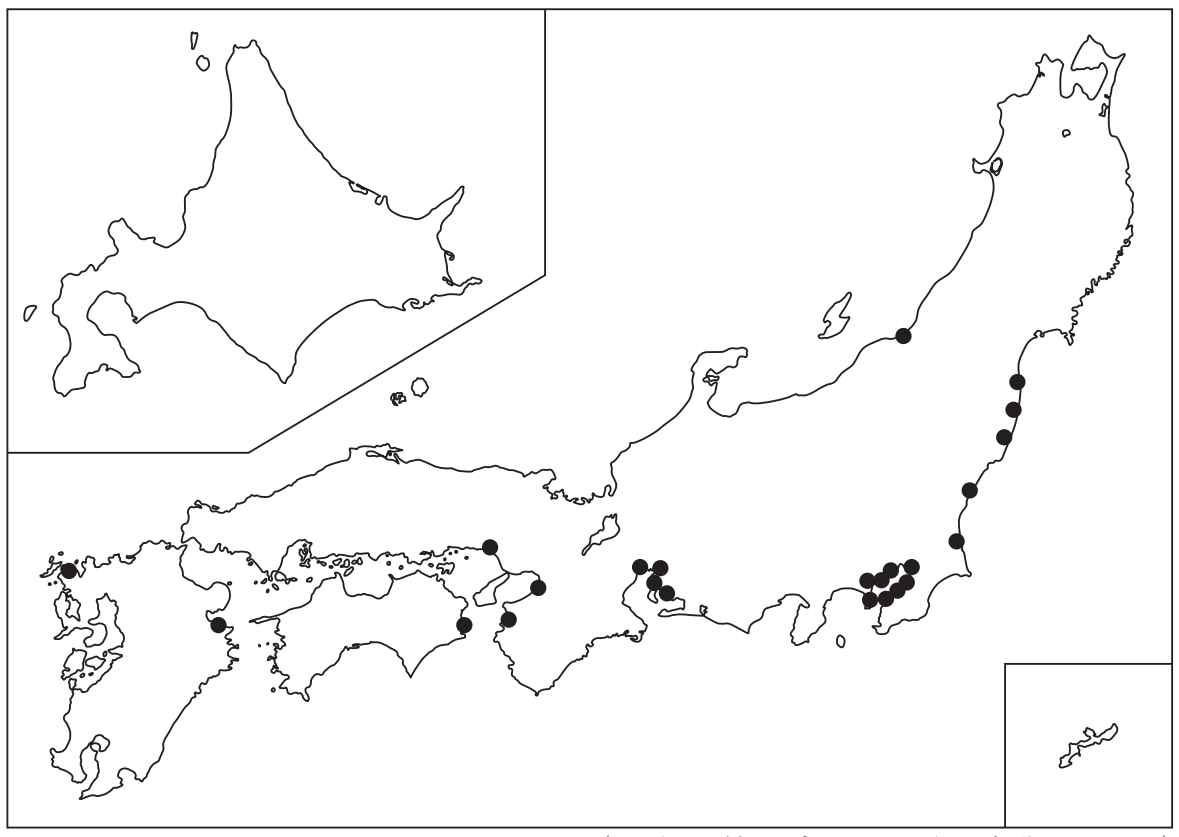
（日本国勢図会 2015／16年版による）

【高知県】

## Step　3

3　ひろ子さんは，「日本の諸地域の学習のまとめ」として北海道をテーマに選び，調べたことをパネルにまとめ，発表した。後の(1)～(4)の問いに答えなさい。

パネル

私は，夏休みに函館空港から，中標津（なかしべつ）空港まで北海道各地をめぐる旅行に行きました。その旅行の中で興味をもったことを調べ，わかったことをまとめました。

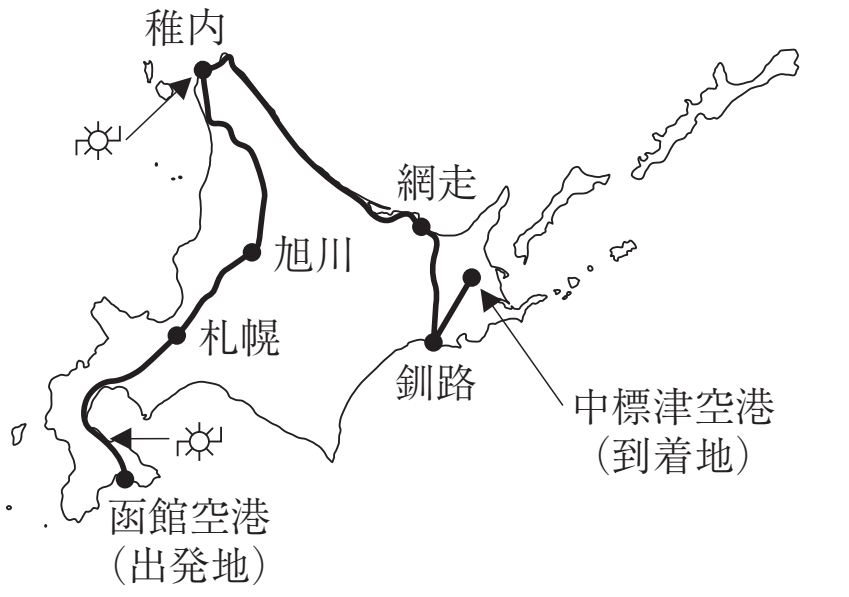


札幌…<u>北海道の中心都市</u>として栄えており，人口は群馬県とほぼ同じである。

旭川…道路が直交する街並みが見られ，明治時代以降に［　A　］兵などが開発したことがわかる。

稚内…「わっかない」という地名は，先住民である［　B　］の人々が使用していた言語が由来となっている。

(1)　パネル中の［　A　］，［　B　］に当てはまる語を書きなさい。

(2)　パネル中の下線部に関して，ひろ子さんは資料Ⅰを見つけた。資料Ⅰについての記述①，②の正誤の組み合わせとして適切なものを，後のア～エから選びなさい。

①　2010年の札幌市の人口は，50年前の3倍以上となっている。

②　1990年と2010年を比べると，北海道の人口のうち，札幌市の人口の占める割合は減少した。

ア　①　正　　②　正　　イ　①　正　　②　誤

ウ　①　誤　　②　正　　エ　①　誤　　②　誤

資料Ⅰ　北海道と札幌市の人口の推移

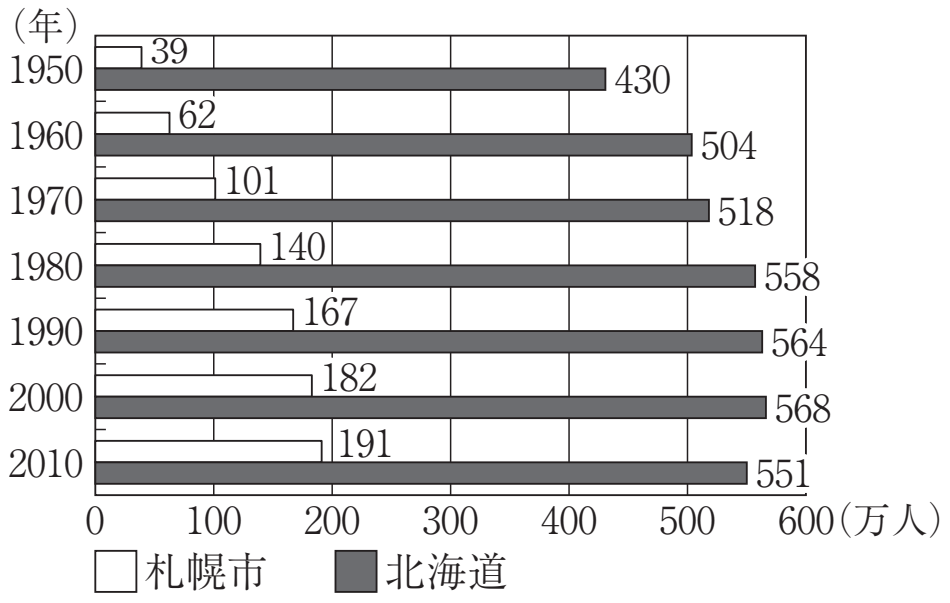


（平成22年国勢調査，札幌市資料により作成）

(3) ひろ子さんは，旅行中に発電所を見つけ，資料Ⅱのようにまとめた。これらの発電方法について，化石燃料を使用している発電方法と比べて，優れている点と，今後一層普及させるための課題を書きなさい。

資料Ⅱ

函館と札幌の間で見た発電所は，地中から噴出する天然の蒸気を利用していました。

この発電所は，稚内の海沿いにある公園内に設置されていました。

(4) ひろ子さんは，パネル中の地図に示したルートでの移動中に見た景色や，地元の人から聞いた話をメモにまとめた。メモ中の空欄［C］～［F］には，後のア～エのいずれかが入る。［C］，［F］に当てはまるものを，ア～エからそれぞれ選びなさい。

メモ

> 札幌から旭川の間では，［C］が道路の両側にわたり見られました。また，この付近の気候の特徴は，［D］ということでした。
>
> 釧路を出発し中標津空港までは，［E］が数十 km 続きました。また，この付近の気候の特徴は，［F］ということでした。

ア　広大な稲作地帯

イ　広大な牧草地帯や牧場

ウ　冬に雪はあまり降らないが，非常に寒い

エ　冬に雪が多く降り，夏は比較的暑くなる

【群馬県】

〈 ***Note*** 〉

# 第 9 講　日本の諸地域（関東・東北・北海道地方）

## Step 1

1 ⑴ 関東ローム　⑵ 東京都　⑶ 群馬県　⑷ ×（埼玉県さいたま市も）
⑸ 奥羽山脈　⑹ 北上川　⑺ 潮目〔潮境〕　⑻ 南部鉄器　⑼ 平泉　⑽ 北見山地
⑾ 客土　⑿ 札幌市

## Step 2

2 １．⑴ イ　⑵ やませ　⑶ エ
２．火力発電に使われる燃料の輸送の大部分は，船によって行われているから。（同意可）

## Step 3

3 ⑴ A．屯田　B．アイヌ　⑵ イ　⑶（優れている点）環境への影響が少ない。（課題）発電の効率を上げる。（それぞれ同意可）　⑷ C．ア　F．ウ